# Безопасное колесо

Знатоки правил дорожного движения

Тренинг 6

# Вопрос № 1

- Определите кто проедет перекресток последним?

# Вопрос № 1

## Определите кто проедет перекресток последним?

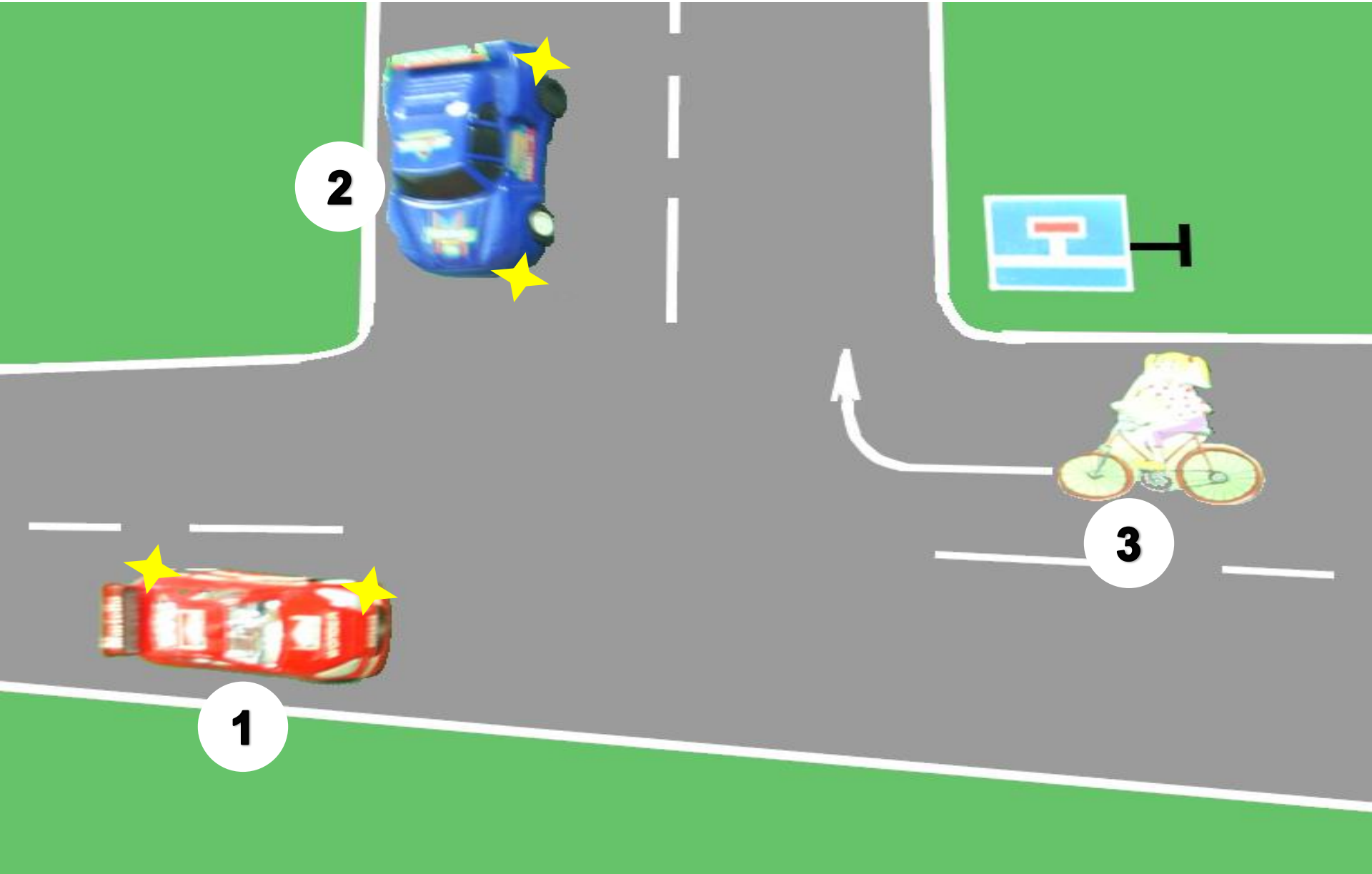

# Вопрос № 2

- Определите порядок проезда перекрестка

# Вопрос № 2

## Определите порядок проезда перекрестка



# Вопрос № 3

- Кому должен уступить дорогу велосипедист?

# Вопрос № 3 .

## Кому должен уступить дорогу велосипедист?

# Вопрос № 4

- Кто проедет перекресток третьим?

# Вопрос № 4 .

## Кто проедет перекресток третьим?

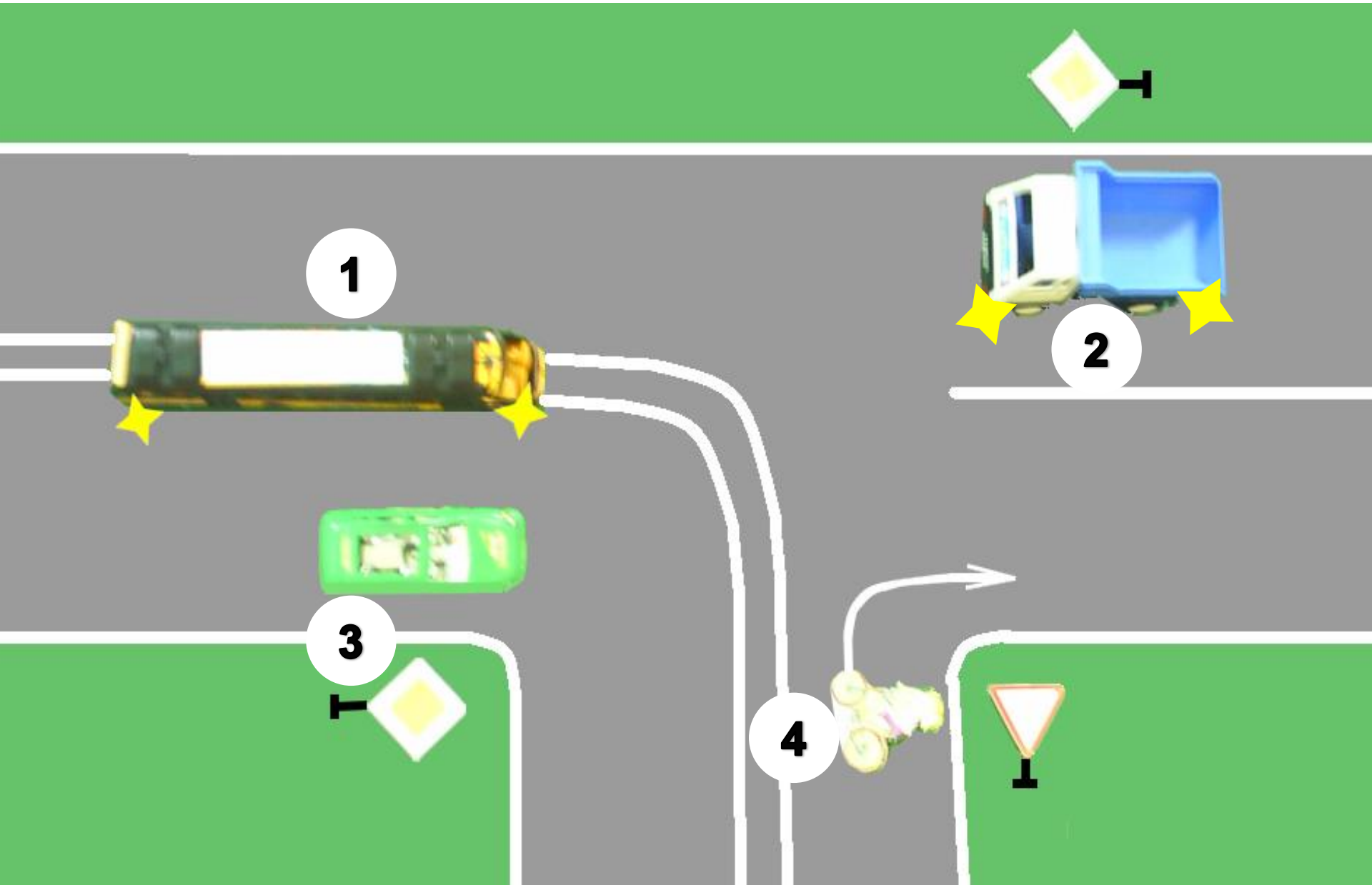

# Вопрос № 5

- Кто проедет перекресток четвертым?

# Вопрос № 5 .

## Кто проедет перекресток четвертым?

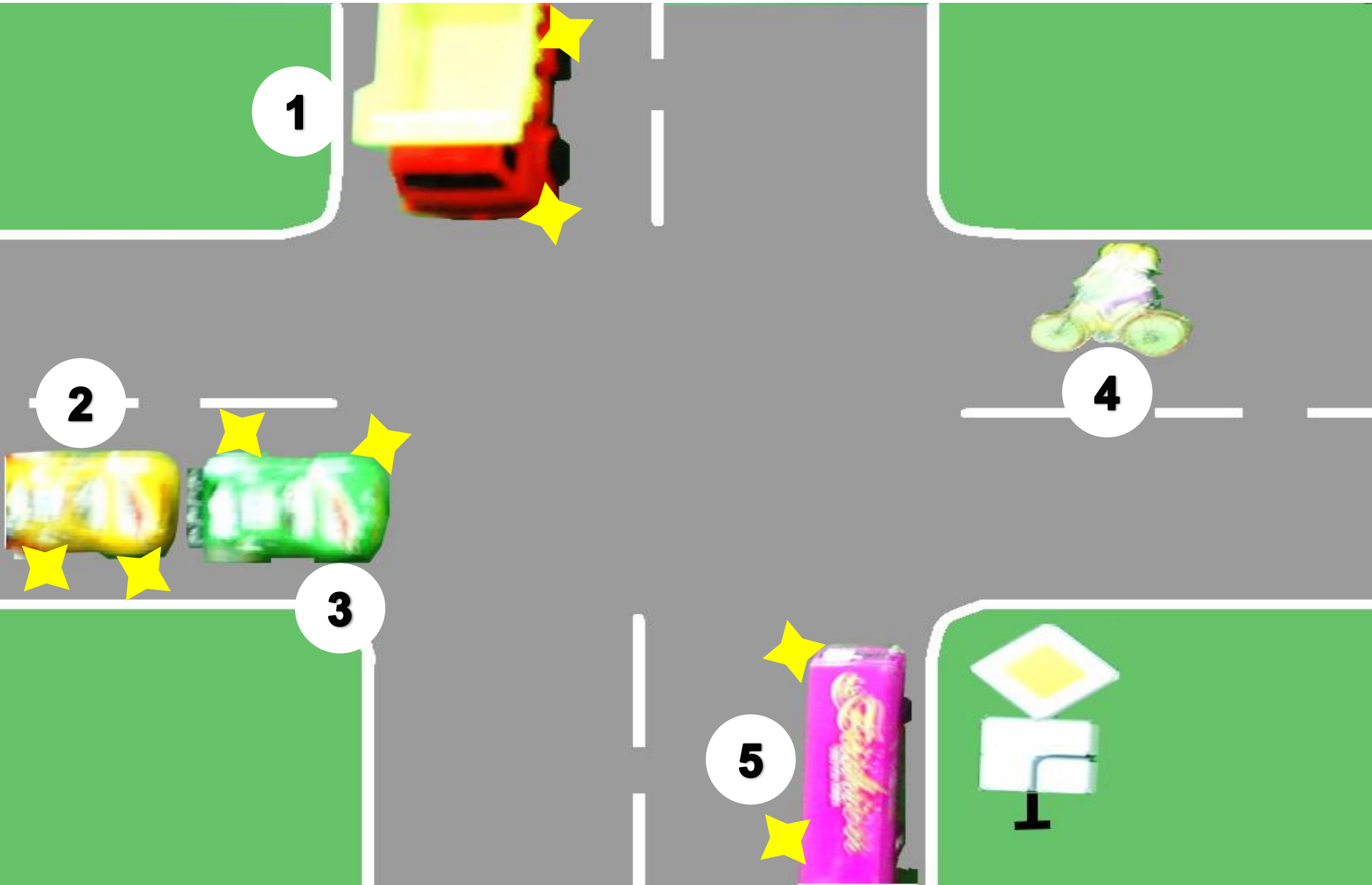

# Вопрос № 6

- Кто проедет перекресток вторым?

# Вопрос № 6 .

## Кто проедет перекресток вторым?

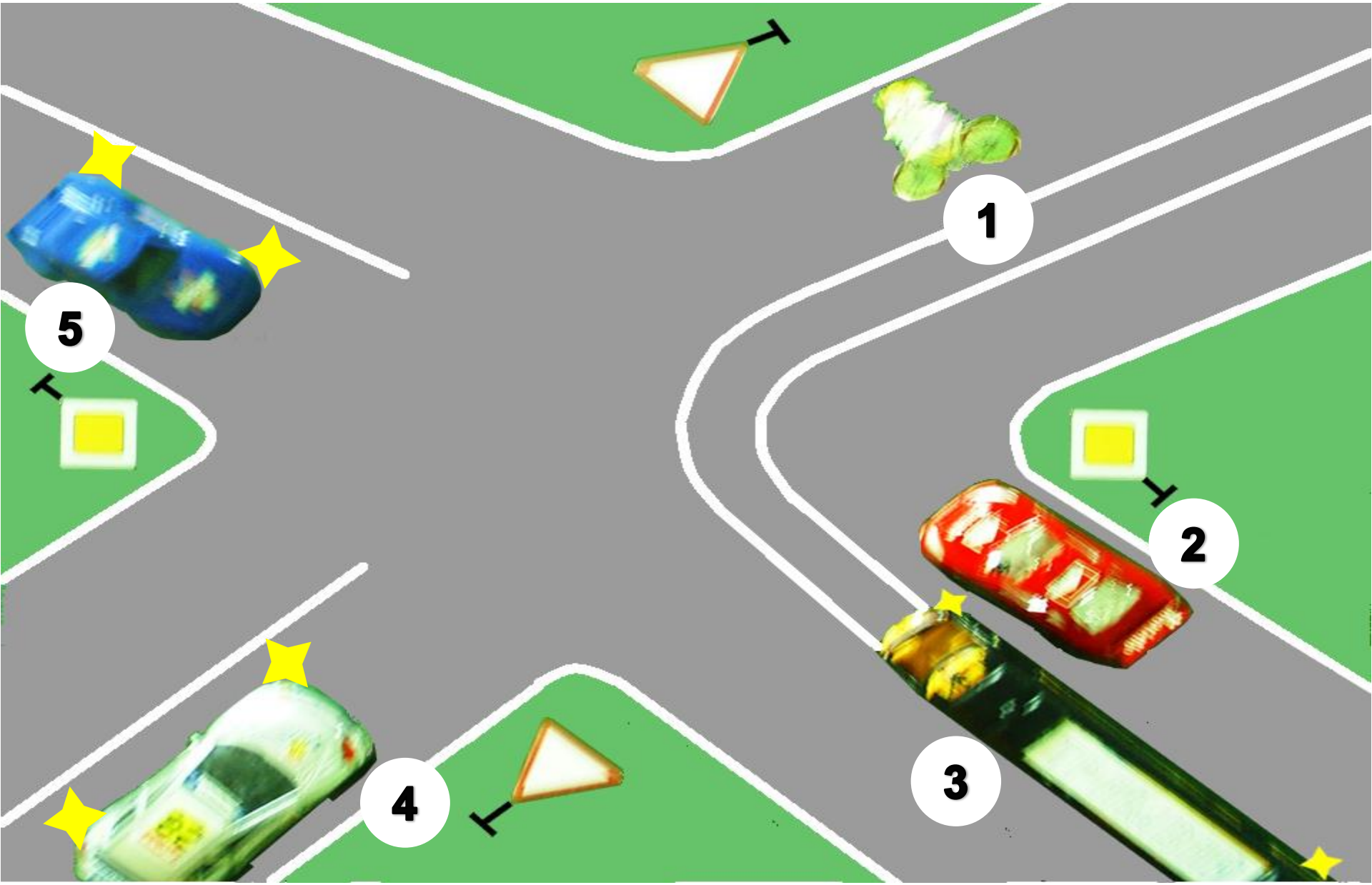

# Вопрос № 7

- Определите кому движение запрещено?

# Вопрос № 7 .

## Определите кому движение запрещено?

# Вопрос № 8

- Определите кому движение разрешено?

# Вопрос № 8 .

## Определите кому движение разрешено?

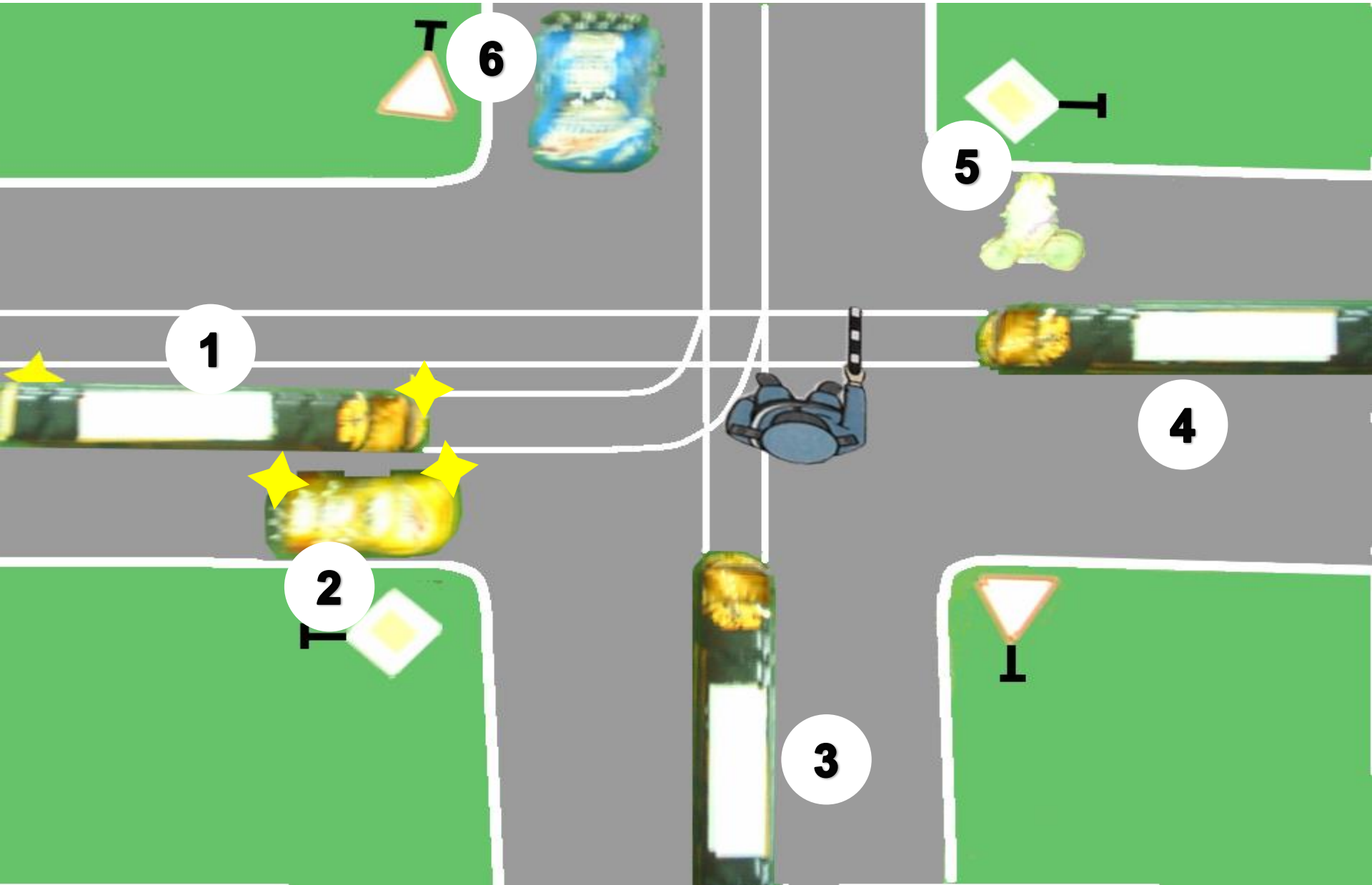

# Вопрос № 9

- *Определите, кто из велосипедистов не соблюдает ПДД.*



1

2



3



4



5



6

# Вопрос № 10.

- Определите , кто из велосипедистов находится в слепой зоне для водителя автобуса?

# Вопрос № 10 .

**Определите , кто из велосипедистов находится в слепой зоне для водителя автобуса?**

# Вопрос № 11

- О чём информируют Вас эти дорожные знаки?

# Вопрос № 11.
# О чём информируют Вас эти дорожные знаки?

1. О приближении к перекрестку, где установлен знак «Движение без остановки запрещено»
2. О приближении к перекрестку, где установлен знак «Уступите дорогу»
3. О приближении к таможне.

# Вопрос № 12

- Разрешено ли Вам произвести остановку в указаном месте

# Вопрос № 12.
# Разрешено ли Вам произвести остановку в указанном месте?

1. Да

2. Нет

# Вопрос № 13

- Действие каких знаков распространяется только до ближайшего перекрёстка?

**Вопрос № 13.**
**Действие каких знаков распространяется только до ближайшего перекрёстка?**

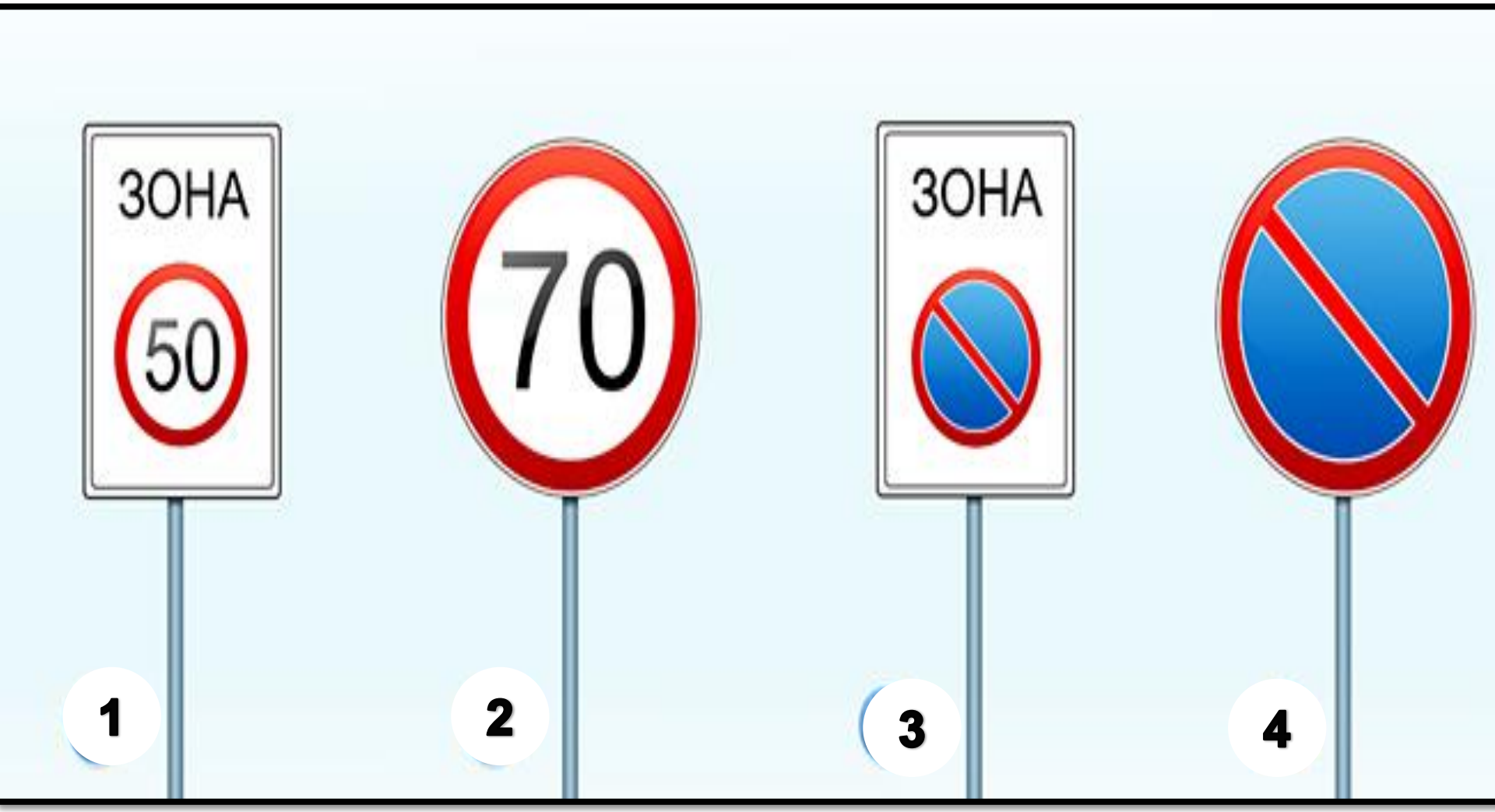

# Вопрос № 14

- Что обозначают линии разметки на перекрёстке?

# Вопрос № 14.
# Что обозначают линии разметки на перекрёстке?

1. Границы полос движения в пределах перекрестка
2. Обязательное направление движения на перекрестке.

Конец задания

# Ответы

1. 2
2. 2, 3, -
3. 1 / 4
4. 2
5. 2
6. 2
7. 1 / 2 / 5 / 6
8. 1 / 2
9. 2 / 3 / 4
10. 3
11. 1
12. 1
13. 2 / 4
14. 1