Безопасное колесо

Знатоки правил дорожного движения

Тренинг 1

Вопрос № 1

- Кто проедет перекресток первым?

Вопрос № 1 .

Кто проедет перекресток первым?

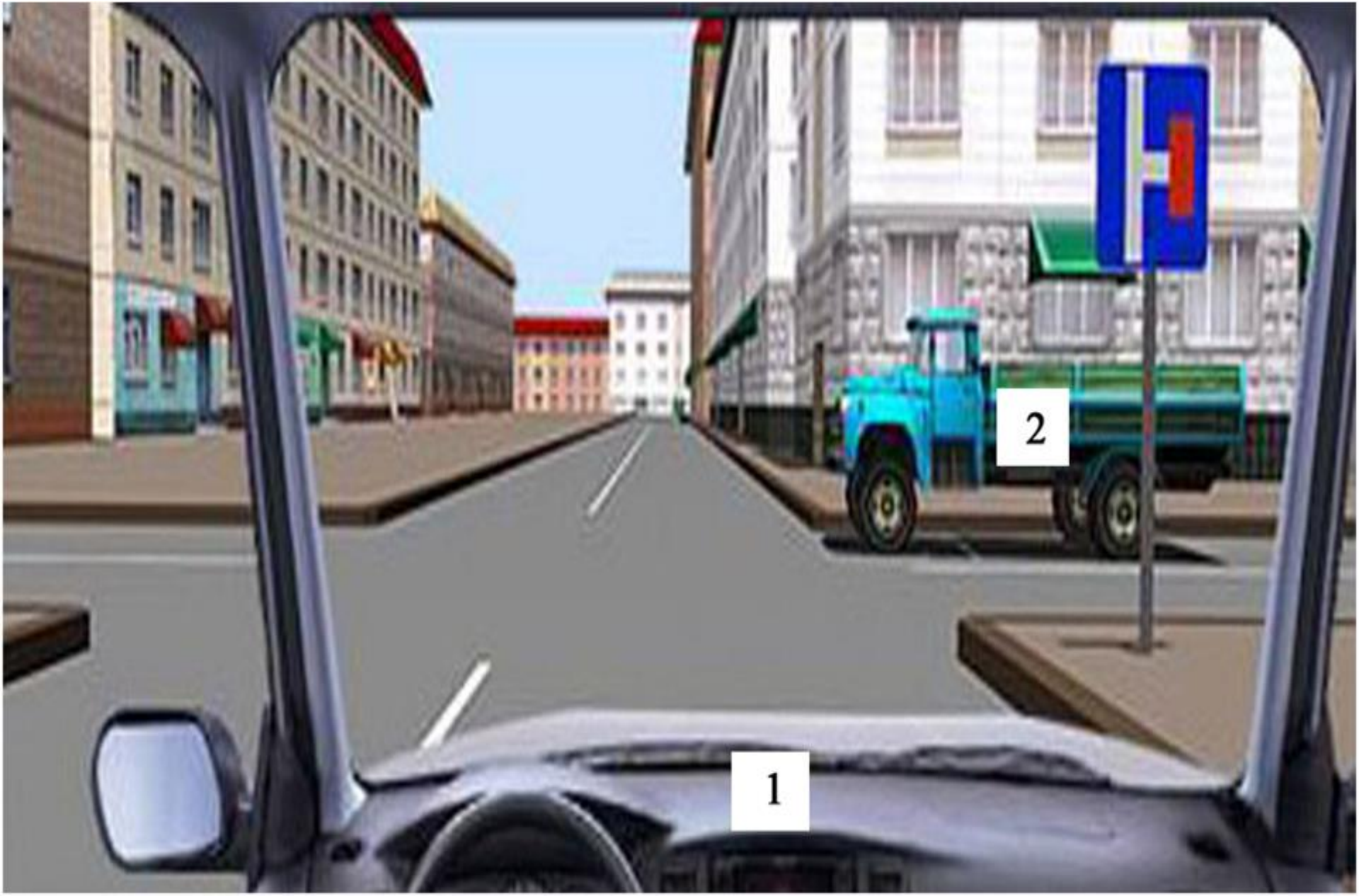

Вопрос № 2

- Кто проедет перекресток вторым?

Вопрос № 2 .

Кто проедет перекресток вторым?

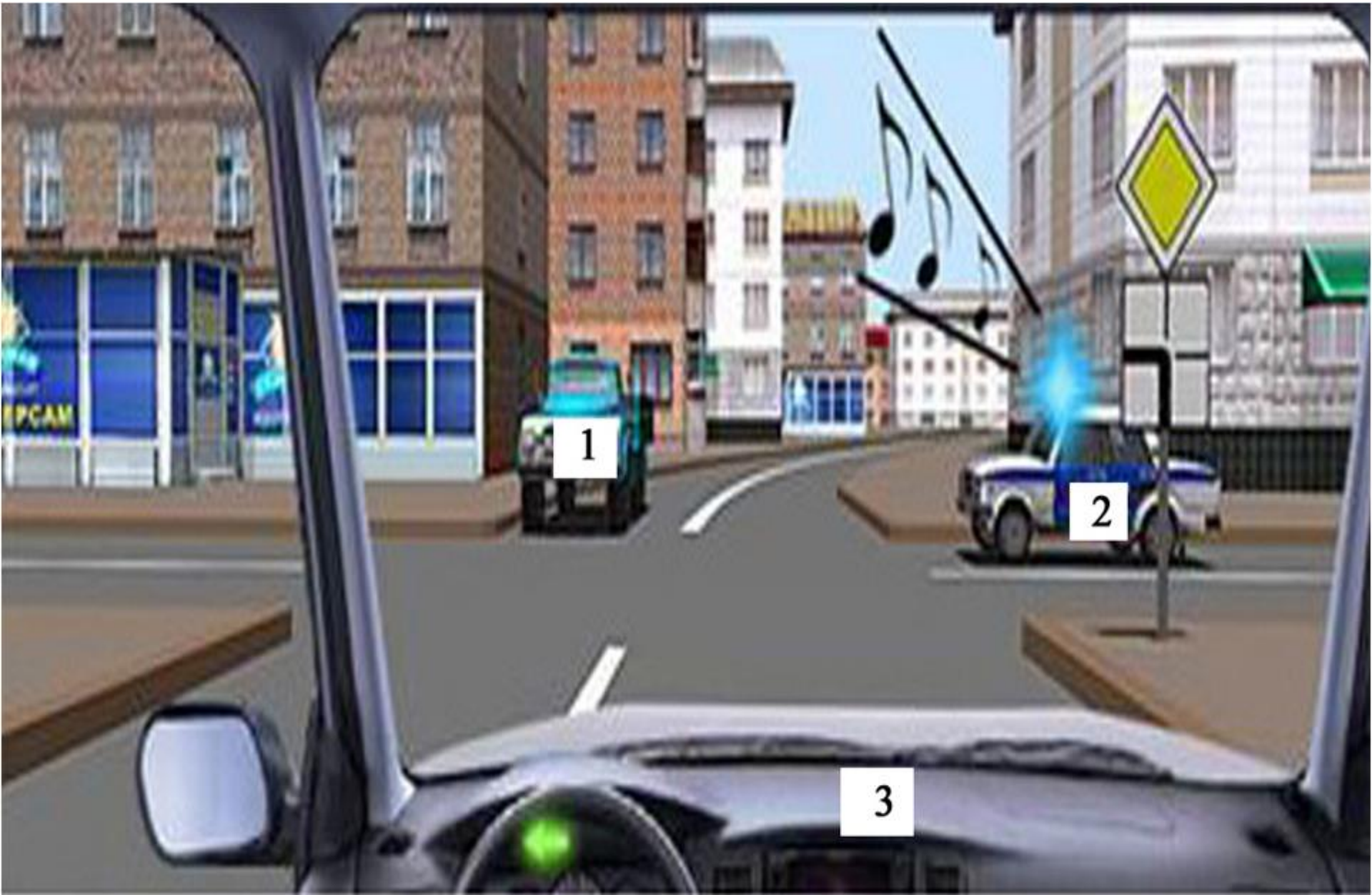

Вопрос № 3

- Кто проедет перекресток третьим?

Вопрос № 3 .

Кто проедет перекресток третьим?

Вопрос № 4

- Определите порядок проезда перекрестка

Вопрос № 4 .
Определите порядок проезда перекрестка



Вопрос № 5

- Определите кто проедет перекресток последним?

Вопрос № 5 .
Определите кто проедет перекресток последним?

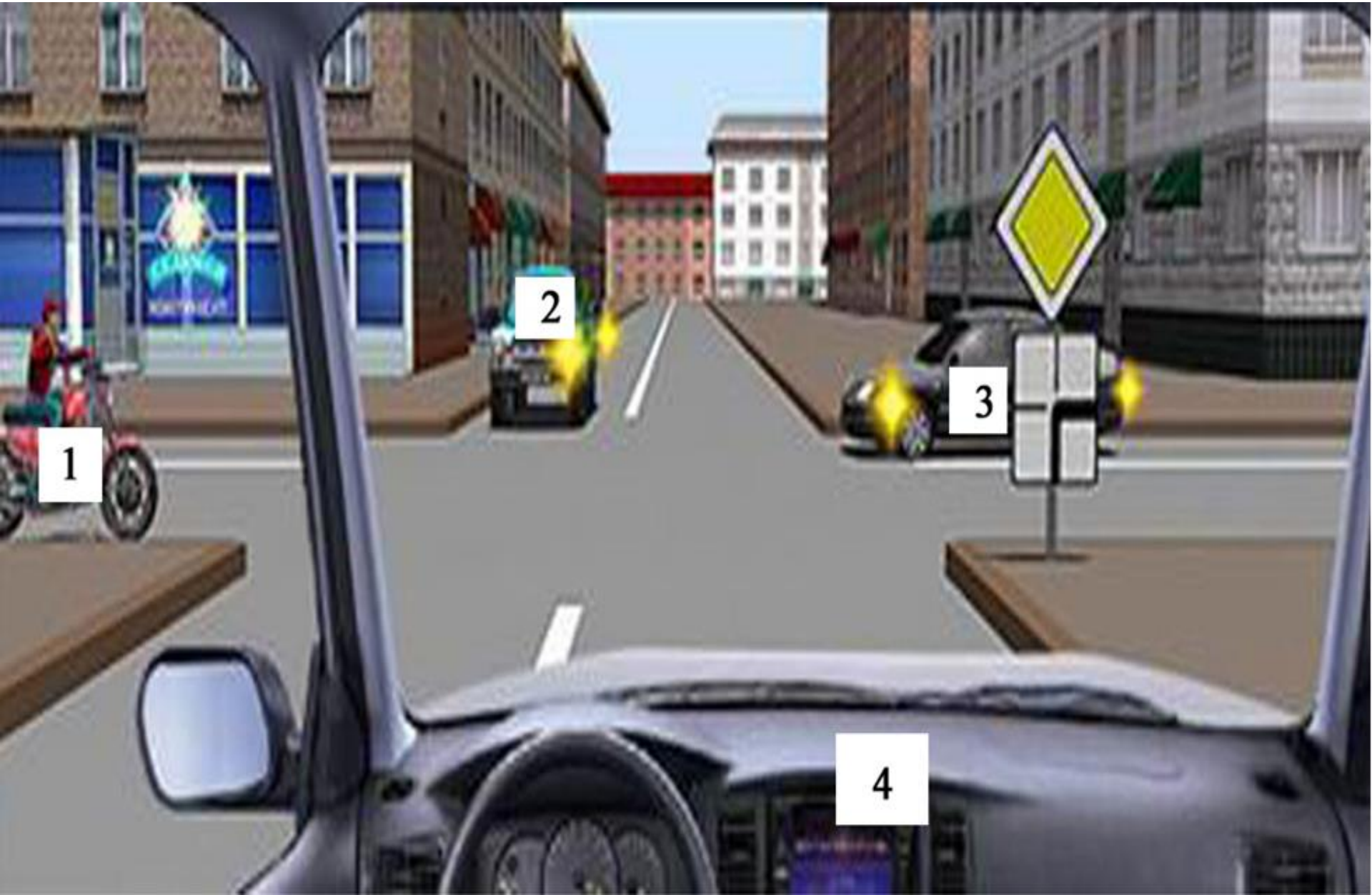

Вопрос № 6

- Кому должен уступить дорогу водитель автомобиля № 3 ?

Вопрос № 6 .

Кому должен уступить дорогу водитель автомобиля № 3 ?

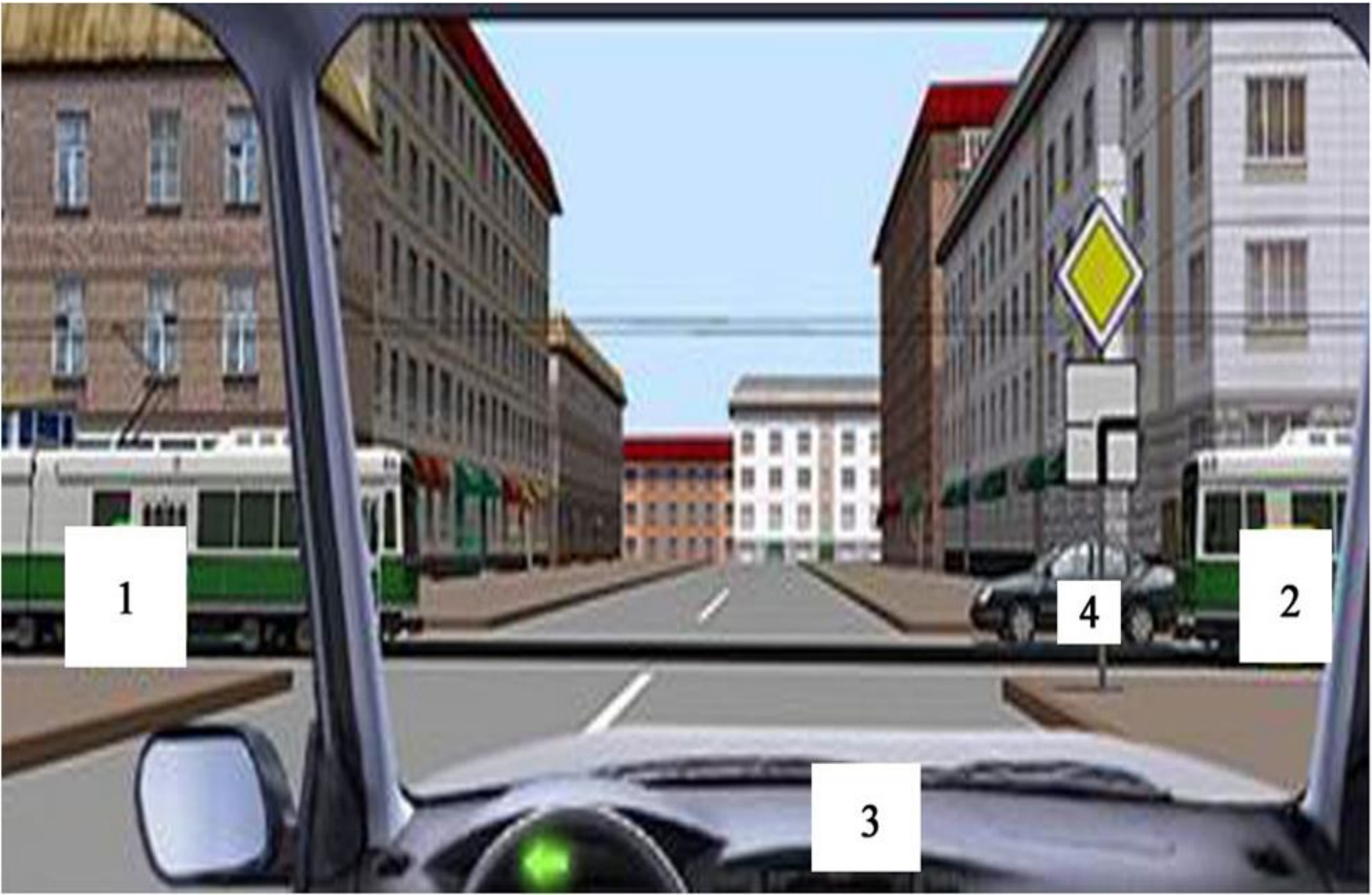

Вопрос № 7

- Определите кому движение разрешено?

Вопрос № 7 .

Определите кому движение разрешено?

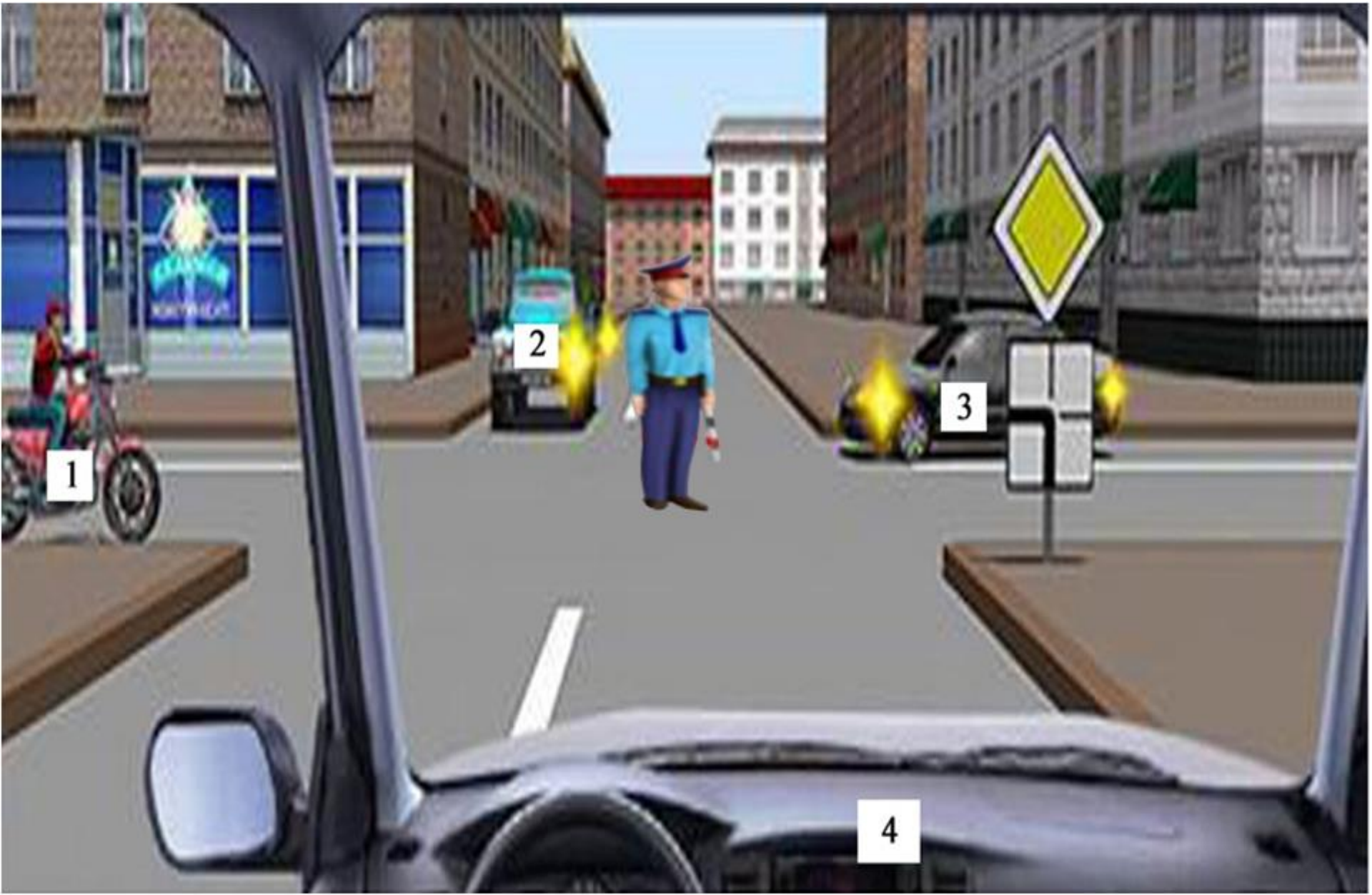

Вопрос № 8

- Определите кому движение запрещено?

Вопрос № 8 .

Определите кому движение запрещено?

Вопрос № 9

Определите, кто из велосипедистов не соблюдает ПДД.



1



2

3

4



5

6

Вопрос № 10.

- Определите , кто из велосипедистов находится в слепой зоне для водителя грузового автомобиля?

Вопрос № 10.

Определите , кто из велосипедистов находится в слепой зоне для водителя грузового автомобиля?

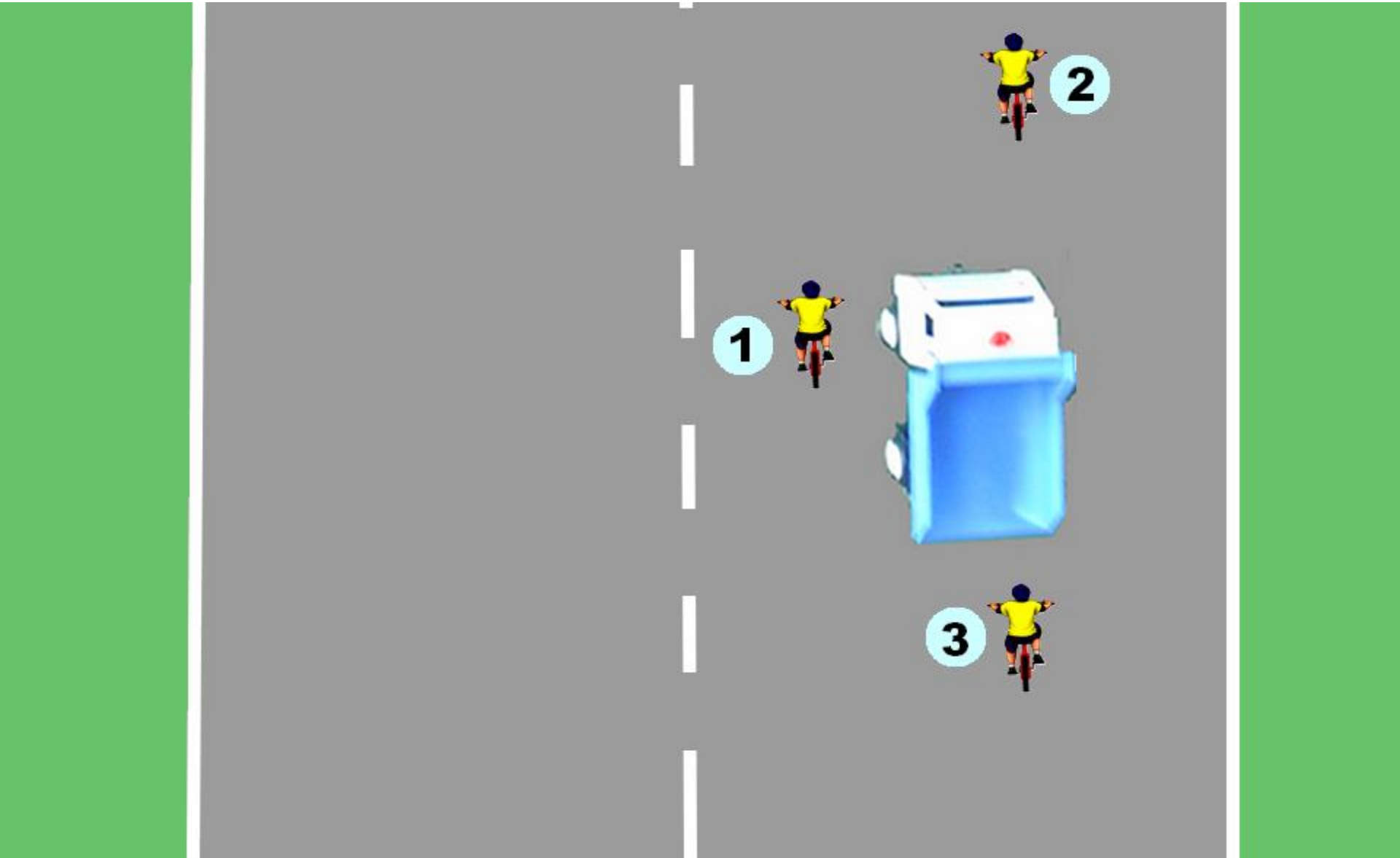

Вопрос № 11

- В каких направлениях Вам разрешено движение?

Вопрос № 11 .

В каких направлениях Вам разрешено движение?

Вопрос № 12

- Этот дорожный знак указывает:

Вопрос № 12.
Этот дорожный знак указывает:



1. Расстояние до конца тоннеля.
2. Расстояние до места аварийной остановки.
3. Направление движения к аварийному выходу и расстояние до него.

Вопрос № 13

- Этот знак разрешает Вам ставить на стоянку легковой автомобиль с использованием тротуара:

Вопрос № 13 .

Этот знак разрешает Вам ставить на стоянку легковой автомобиль с использованием тротуара:

1. Только на правой стороне дороги до ближайшего по ходу движения перекрестка.
2. На любой стороне дорог, расположенных в зоне регулируемой стоянки.
3. Только на правой стороне дороги до знака «Конец зоны регулируемой стоянки».

Вопрос № 14

- Эта разметка, нанесённая на полосе движения:

Вопрос № 14 .
Эта разметка, нанесённая на полосе движения:

1. Предупреждает Вас о приближении к сужению проезжей части.
2. Предоставляет Вам преимущество при перестроении на правую полосу.
3. Информирует Вас о том, что дорога поворачивает направо.

Конец задания

Ответы

1. 2
2. 3
3. 2
4. 3, 2, 1
5. 2
6. 2 / 4
7. 1
8. 1 / 2 / 3
9. 1 / 4 / 6
10. 3
11. 1 / 2
12. 3
13. 2
14. 1